Nume:
.....
.....

TEST DE EVALUARE FINALĂ

Data: .....
Calificativ: .....

1. Completează numerele care lipsesc din fiecare șir.

a)	2	5		2	6											3	0									
b)	7	3		7	0		6	7											5	5						
c)	1	0		2	0																	8	0			

2. Calculează, apoi compară rezultatele, folosind semnele < , > , =.

	4	6	+	2	8		9	0	-	4	7				7	2	-	4	3		4	8	+	2	3	

3. Calculează:

	1	5	+			6	9	+			7	0	-			1	0	0	-		
	2	7				1	8				3	4					3	8			

4. Efectuează respectând ordinea efectuării operațiilor.

3	2	+	4	9	+	1	4	=																		
9	3	-	3	8	+	3	5	=																		
2	9	+	5	6	-	4	9	=																		

5. Calculează:

a) Suma numerelor 39 și 36.

b) Diferența numerelor 86 și 37.

c) Diferența dintre 47 și răsturnatul său.

d) Suma dintre 34 și predecesorul lui 45.

6. Află termenul necunoscut.

a – 43 = 38
a =
a =
v:

64 – b = 39
b =
b =
v:

c + 55 = 82
c =
c =
v:

7. Rezolvă exercițiile!

a) Din cel mai mare număr par, mai mic decât 80, scade suma numerelor 18 și 19.

b) Cu cât este mai mare suma numerelor 16 și 38 decât numărul 23?

c) Câte ore sunt în 3 zile?

d) Câte luni sunt în 2 ani și 6 luni?

8. Scrie A (adevărat) sau F (fals).

- ☐ ·Luna mai este lună de primăvară.
- ☐ ·Lungimea se măsoară în metri.
- ☐ ·O oră are 60 de minute.
- ☐ ·Pentru a trăi, plantele au nevoie de aer, pământ, apă .
- ☐ ·Triunghiul are 4 laturi egale.
- ☐ ·Apa fiebe la 100 grade Celsius.
- ☐ ·Cubul are 6 fețe în formă de pătrat.
- ☐ ·Două monede de 50 bani valorează 1 leu.

9. Scrie denumirea figurilor și corpurilor geometrice date.

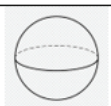						

10. Desenează:
·Un cerc în interiorul unui pătrat.
·Un triunghi în stânga cercului.
·Un dreptunghi în stânga triunghiului.

11. Scrie ora indicată, folosind culori diferite pentru ore și minute.

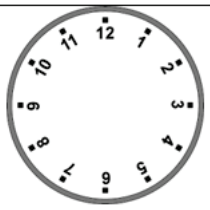	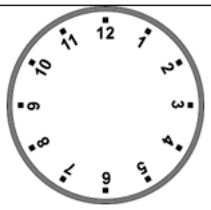	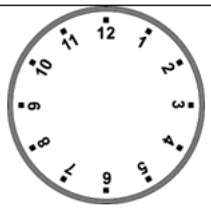
Ora 4:00	Ora 14:30	Ora 23:00

12. Într-un buchet sunt 27 de trandafiri și cu 14 mai multe gladiole.
Câte gladiole sunt?

R: .....

13. Mihai a economisit 100 de lei. El cumpără un stilou de 26 lei și o minge de 58 lei.
Cu ce sumă rămâne după ce achită cumpărăturile?

Rezolvare:

1.																					
2.																					

R: .....